Facit

De forheksede takter

Tæl slagene i hver takt. Sæt flueben, hvis takten har 3 slag, og kryds, hvis den ikke har.

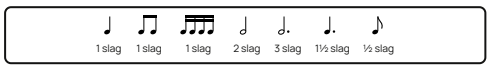

1	4 slag	X	9	4 slag	X
2	3 slag	✓	10	3 slag	✓
3	4 slag	X	11	3 slag	✓
4	3¼ slag	X	12	2¼ slag	X
5	3 slag	✓	13	3 slag	✓
6	4 slag	X	14	3¼ slag	X
7	3 slag	✓	15	3 slag	✓
8	3 slag	✓	16	2¼ slag	X

Danse macabre

Læs om Danse macabre, og svar på spørgsmålene.

Camille Saint-Saëns var en komponist fra Frankrig. I 1874 skrev han Danse macabre. Navnet er fransk og betyder dødedans. Musikken bygger på et digt, hvor Døden spiller op til dans på sin violin ved midnat, mens skeletterne danser.

Musikken begynder med, at harpen spiller den samme tone tolv gange. Det er klokken, der slår midnat. Så begynder soloviolinen. Den spiller et interval (afstanden mellem to toner), som man engang kaldte djævlen i musikken. Når knoglerne klapprer, er det xylofonen, man hører. Til sidst spiller oboen en hane, der galer.

Da stykket blev spillet første gang i 1875, var mange ikke begejstrede. Musikken gjorde dem urolige.

1. Hvilket land kom Saint-Saëns fra?
Frankrig

2. Hvilket instrument lyder som knogler, der klaprer?
Xylofonen

3. Hvorfor spiller harpen den samme tone tolv gange?
Det er klokken, der slår midnat

4. TÆNK: Hvorfor passer det, at hanen galer til sidst? Brug teksten.
Åbent. Fx: dansen foregår ved midnat, og hanen galer
om morgenen, så natten og dansen er forbi.

5. Tæl tangenterne efter den første prik, op til og med den næste prik, både hvide og sorte. De to prikker er det interval, soloviolinen spiller.

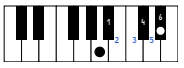

tangenter: 6

Komponistens værktøjskasse

Træk en streg fra hvert ord ned til den kasse, det hører til.

hurtigt · mørkt · piano · bliver langsommere · svagt · interval · mol · forte · puls (det jævne slag) · melodi · dur · langsomt · i sneglefart · kraftigt · decrescendo · crescendo · lyst · bliver hurtigere

Dynamik
Hvor kraftigt eller svagt musikken spilles.
crescendo, forte, svagt, piano, decrescendo, kraftigt

Tempo
Hvor hurtigt slagene og musikken går.
langsomt, bliver hurtigere, puls (det jævne slag), hurtigt, i sneglefart, bliver langsommere

Toner
Hvilke toner der spilles, og hvordan de hører sammen.
interval, mørkt, dur, melodi, lyst, mol

Knæk den forheksede kode

Tæl trin (fra en linje til det næste mellemrum) op eller ned fra C, G og det lyse C i nøglen, og skriv nodernes bogstaver i felterne. Bogstaverne i de grå felter står der allerede.



1. F A B E L
2. B A G D E L
3. A D G A N G
4. B E G G E
5. E F F E K T
6. D A G B O G
7. A G E N D A
8. K A G E
9. B E F A L
10. F A G B O G

Find værket · Camille Saint-Saëns: «Danse macabre» (side 3)

Op. 40, ca. 7 min. Søg på YouTube, Spotify eller DR efter «Saint-Saëns Danse macabre». Vælg en udgave med symfoniorkester og soloviolin, ikke en klaverudgave, fx Orchestre symphonique de Montréal med Charles Dutoit (Decca). Harpens tolv toner kommer helt i begyndelsen.

Facit (fortsat)

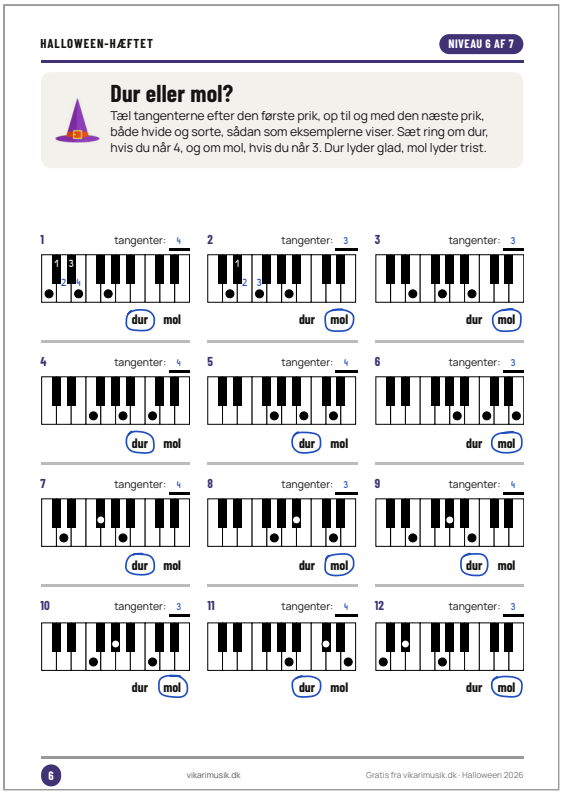

HALLOWEEN-HÆFTET NIVEAU 6 AF 7

Dur eller mol?

Tæl tangenterne efter den første prik, op til og med den næste prik, både hvide og sorte, sådan som eksemplerne viser. Sæt ring om dur, hvis du når 4, og om mol, hvis du når 3. Dur lyder glad, mol lyder trist.

1 tangenter: 4 — dur (mol)
2 tangenter: 3 — dur (mol)
3 tangenter: 3 — dur (mol)
4 tangenter: 4 — dur (mol)
5 tangenter: 4 — dur (mol)
6 tangenter: 3 — dur (mol)
7 tangenter: 4 — dur (mol)
8 tangenter: 3 — dur (mol)
9 tangenter: 4 — dur (mol)
10 tangenter: 3 — dur (mol)
11 tangenter: 4 — dur (mol)
12 tangenter: 3 — dur (mol)

6 vikarimusik.dk Gratis fra vikarimusik.dk · Halloween 2026



HALLOWEEN-HÆFTET NIVEAU 6 AF 7

Mønstret flytter sig

Find mønstret i hver række, og se, hvor langt det flytter sig fra takt til takt. Skriv så noderne i den sidste takt.

1
2
3
4
5
6

7 vikarimusik.dk Gratis fra vikarimusik.dk · Halloween 2026

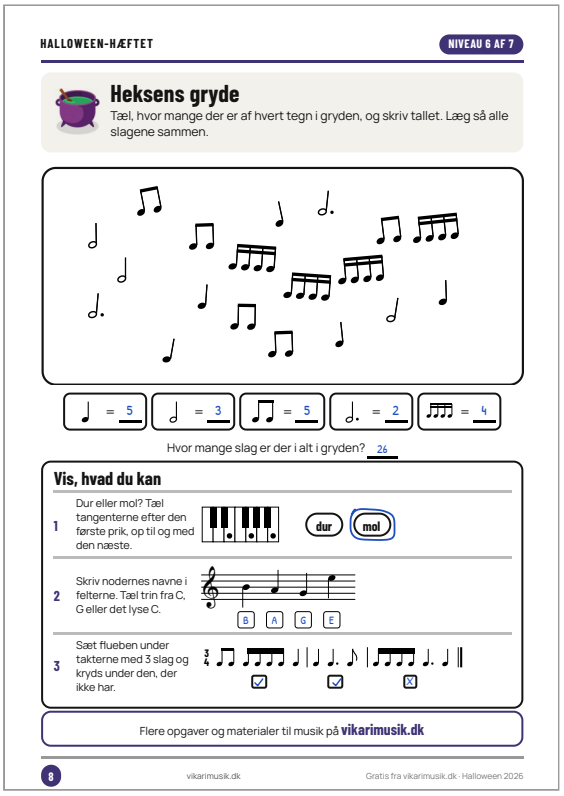

HALLOWEEN-HÆFTET NIVEAU 6 AF 7

Heksens gryde

Tæl, hvor mange der er af hvert tegn i gryden, og skriv tallet. Læg så alle slagene sammen.

♩ = 5 | 𝅗𝅥 = 3 | ♫ = 5 | 𝅗𝅥. = 2 | 𝅘𝅥𝅯𝅘𝅥𝅯𝅘𝅥𝅯𝅘𝅥𝅯 = 4

Hvor mange slag er der i alt i gryden? 26

Vis, hvad du kan

1 Dur eller mol? Tæl tangenterne efter den første prik, op til og med den næste. — dur (mol)

2 Skriv nodernes navne i felterne. Tæl trin fra C, G eller det lyse C. — B A G E

3 Sæt flueben under takterne med 3 slag og kryds under den, der ikke har. — ☑ ☑ ☒

Flere opgaver og materialer til musik på **vikarimusik.dk**

8 vikarimusik.dk Gratis fra vikarimusik.dk · Halloween 2026

Til læreren. Hæftet rækker til to til tre lektioner. Der findes ikke ét rigtigt svar på side 3, spørgsmål 4. **Lyt, hvis I kan:** Camille Saint-Saëns, «Danse macabre» (ca. 7 min.). **Kilder:** Wikipedia, «Danse macabre (Saint-Saëns)»; Palazzetto Bru Zane, «Danse macabre».